☐ **# 1**

+

один ответ

2 1

корректировать

Выберите из списка один верный ответ (1 правильный ответ, 2 балла за правильный ответ, максимальный балл – 2). Засчитывается верный ответ при отсутствии лишних ответов.
Укажите имя московского князя, не владевшего ярлыком на великое княжение Владимирское:

A 1 Юрий Данилович —

B 2 Даниил Александрович ✓

C 3 Иван Данилович Калита —

D 4 Семен Иванович Гордый —

E 5 Иван II Иванович Красный —

☐ **# 2**

+

несколько ответов

6 2

корректировать

Прочитайте два текста, связанные с историей России, выберите из списка верные суждения и укажите их. (2 правильных ответа, 3 балла за каждый правильный ответ, максимальный балл – 6). Засчитывается каждый верный ответ при отсутствии лишних ответов. Если участник отметил три варианта ответа, то за каждый верный ответ начисляется 3 балла, за каждый неверный – 0 баллов, НО вычитается 3 балла за лишний вариант ответа. Во всех остальных случаях ставится 0 баллов.

1) «Когда Мамай, летом 1380 г., заложив свой стан при устье реки Воронежа, назначал там сборное место для своих полчищ и ждал Ягелла, Димитрий собирал подручных князей на общее дело защиты Руси...

Митрополита Алексия уже не было в живых. Он скончался в 1378 г. Этот архипастырь, главнейший советник Димитрия, во всё время своего первосвятительства употреблял свою духовную власть для возвышения Москвы и служил ее интересам... В то время, когда приходилось Димитрию идти на войну, Москва оставалась без митрополита, и это обстоятельство лишало предпринимаемый поход обычного первосвятительского благословения; но Димитрий обратился за благословением к преподобному Сергию, хотя и был с ним в размолвке. Сергий пользовался всеобщим уважением, его молитвам приписывали большую силу, за ним признавали дар пророчества. Сергий не только ободрил Димитрия, но и предсказал ему победу. Такое предсказание, сделавшись известным, сильно возбудило в войске отвагу и надежду на победу».
(Костомаров Н.И. Великий князь Дмитрий Иванович Донской // Русская история в жизнеописаниях ее главнейших деятелей. -СПб., 1896// Головатенко А. Эпизоды истории русской Церкви. М., 1997. С.44-45)

2) «Известно стало, что Божиим попущением за грехи наши ордынский князь Мамай собрал силу великую, всю орду безбожных татар, и идет на Русскую землю; и были все люди страхом великим охвачены. Князем же великим, скипетр Русской земли державшим, был тогда прославленный и непобедимый великий Дмитрий. Он пришел к святому Сергию, потому что великую веру имел в старца, и спросил его, прикажет ли святой ему против безбожных выступить: ведь он знал, что Сергий - муж добродетельный и даром пророческим обладает. Святой же, когда услышал об этом от великого князя, благословил его, молитвой вооружил и сказал: «Следует тебе, господин, заботиться о порученном тебе Богом славном христианском стаде. Иди против безбожных, и если Бог поможет тебе, ты победишь и невредимым в свое отечество с великой честью вернешься». Великий же князь ответил: «Если мне Бог поможет, отче, поставлю монастырь в честь пречистой Богоматери». И сказав это и получив благословение, ушел из монастыря и быстро отправился в путь... Великий князь Дмитрий, славную победу одержав, пришел к Сергию, благодарность принеся за добрый совет, Бога славил и вклад большой в монастырь дал».
(Из «Жития Сергия Радонежского, составленного Епифанием Премудрым // Головатенко А. Эпизоды истории русской Церкви. М., 1997. С.45-46)

A 1 Митрополит Алексий поддерживал только Владимир, Москва оставалась без его внимания —

B 2 Мамай заложил свой военный лагерь в устье реки Воронеж ✓

C 3 Московский князь Дмитрий Иванович обещал поставить монастырь в честь Богоматери ✓

D 4 после Куликовской битвы деньги на строительство монастыря Дмитрием Ивановичем выделены не были —

E 5 предсказание Сергия Радонежского не имело ободряющего значения для Дмитрия Московского и его воинов —

☐ **# 3**

+

сопоставление

3 3

корректировать

Расположите события истории России (с древнейших времен до начала XVIII века) в хронологическом порядке и введите последовательность цифр в поле для ответа. (3 балла за верно установленную последовательность из пяти элементов).

1. 1
2. 2
3. 3
4. 4
5. 5

A 1 Начало создания Русской Правды

B 2 Ледовое побоище

C 3 присоединение Новгорода к Московскому княжеству

D 4 создание стрелецкого войска

E 5 восстание Степана Разина

☐ **# 4**

+

сопоставление

10 4

корректировать

Установите соответствие между изображениями и текстами. Для этого к каждой позиции в первом столбце подберите соответствующую позицию из второго столбца. (2 балла за каждое верно установленное соответствие, максимальный балл – 10).

1. Этот храм неоднократно перестраивался, в настоящее время воссоздан. Он символизировал победу над поляками в 1612 году и освобождение Москвы
2. Этот знаменитый собор был построен под руководством итальянского зодчего и служил усыпальницей русских князей и царей
3. Этот памятник был построен при князе Андрее Боголюбском как элемент оборонительных сооружений великого города и парадный въезд для княжеских и церковных процессий
4. Это выдающийся памятник церковной архитектуры конца XVII в., символ нового художественного стиля - «барокко»
5. Это всемирно известный памятник архитектуры и монументальной живописи XIV в. Церковь была расписана выдающимся византийским живописцем Феофаном Греком

A
1



B
2



C
3



D
4



E
5



☐ **# 5**

+

несколько ответов

6 5

корректировать

Выберите из списка правильные суждения об истории России с древнейших времен до начала XVIII века и укажите их. (3 правильных ответа, 2 балла за каждый правильный ответ, максимальный балл – 6). Засчитывается каждый верный ответ при отсутствии лишних ответов. Если участник отметил четыре варианта ответа, то за каждый верный ответ начисляется 2 балла, за каждый неверный – 0 баллов, НО вычитается 2 балла за лишний вариант ответа. Во всех остальных случаях ставится 0 баллов.

A 1 Войска Батыя в 1238 году захватили Владимир, Торжок и Новгород —

B 2 Соборное уложение, принятое в период правления Алексея Михайловича, упразднило крепостное право —

C 3 первый Земский собор в Москве был созван в 1549 году ✓

D 4 местом пребывания русского царя в начале опричнины была Александровская слобода ✓

E 5 казачий атаман Ермак воевал с ханом Едигером в период покорения Сибирского ханствам —

F 6 правление Лжедмитрия I длилось около года и завершилось заговором во главе с Василием Шуйским ✓

☐ **# 6**

+

сопоставление

10 6

корректировать

Установите соответствие между изображениями памятников основателям уральских городов и краткими историческими справками об этих людях. Для этого к каждой позиции в первом столбце подберите соответствующую позицию из второго столбца. (2 балла за каждое верно установленное соответствие, максимальный балл – 10).

1. Этот памятник установлен в честь двух исторических деятелей, сыгравших основную роль в строительстве города - уральской столицы. Они держат в руках первый план города, на котором значится год его основания -1723
2. Этот памятник в честь 400-летия города имеет металлические таблички, одна из которых – бронзовый барельеф царя Федора Иоанновича, повелевшего воеводам приступить к строительству этого города-крепости
3. Этот памятник установлен на искусственном холме в память о первых строителях города, и на основании памятника размещены строки романтического стихотворения Бориса Ручьёва
4. Этот памятник установлен на месте, где строилась первая городская крепость. Композиция включает четыре бронзовые фигуры – казак с пикой, крестьянин с пилой, башкир и полковник Алексей Иванович Тевкелёв, отвечающий за строительство крепости
5. Этот памятник появился повторно, и был творчески переосмыслен скульптором. Он изображает известного уральского заводчика, при котором в Нижнем Тагиле появились первое каменное здание госпиталя, приюты, школа живописи

A

1



B

2



C

3


ДА ЖГЛИ У ДВЕРЕЙ
МАГНИТНОЙ ГОРЫ

D
4



E
5



☐ **# 7**

+

несколько ответов

9 7

корректировать

Прочитайте отрывок из воспоминаний, выберите из списка все верные суждения, относящиеся к данному тексту, и отметьте их. (3 правильных ответа, 3 балла за каждый правильный ответ, максимальный балл – 9). Засчитывается каждый верный ответ при отсутствии лишних ответов. Если участник отметил четыре варианта ответа, то за каждый верный ответ начисляется 3 балла, за каждый неверный – 0 баллов, НО вычитается 3 балла за лишний вариант ответа. Во всех остальных случаях ставится 0 баллов.

«Я застыла у репродуктора. Был пасмурный морозный день, падал сухой, мелкий снег…И вдруг из шипящего репродуктора раздался зычный голос Левитана и шумно разнесся над притихшей площадью. Он звучал необычно торжественно и радостно, ибо впервые за прошедшие полгода перечислял города, которые мы не оставили, а взяли обратно. Знакомые до боли подмосковные городки и поселки! Левитан называл цифры захваченных пленных, военных трофеев, сообщал число километров, на которое немцев отогнали от Москвы. Я слушала и не верила своим ушам. Счастье, невыразимая радость

заливали меня, слезы, впервые за эти месяцы, не сдавленные, а свободные, слезы радости текли из глаз. И люди, стоявшие рядом со мною, переживали то же самое. Это было видно по их глазам, жестам, скупым улыбкам.
Счастье было не просто в успехах нашей армии, а главным образом в том, что она, несмотря ни на что, выжила, не истощилась в страшной многомесячной битве с врагом, нашла силы при тридцатиградусном морозе в открытых полях под Москвой разгромить непобедимого до того момента врага. В этом была первая близкая, робкая надежда на возможность победы, на спасение от страшной черной чумы, бесконечная гордость за наших солдат, молодых офицеров и генералов, в боях проходивших школу той небывалой войны. В этот момент странным образом забылись поражения первых месяцев... Так целый месяц мы жили в атмосфере великого праздника».

(Из воспоминаний историка Е.В. Гутновой// Пазин Р.В., Морозов А.Ю. Хрестоматия-практикум по истории России: 6-11 класс. СПб, 2022. С. 375-376)

A 1 Речь в тексте идет о начальном периоде Великой Отечественной войны ✓

B 2 По мнению автора текста, главный успех был в долгом сопротивлении советских солдат, возможности продолжать военные действия ✓

C 3 текст рассказывает о снятии блокады Ленинграда —

D 4 великим праздником автор называет победу СССР в Московской битве ✓

E 5 в тексте говорится о том, что эта информация была недоступна гражданам страны, была засекречена —

F 6 в тексте говорится о том, что сообщение об освобожденных Красной армией советских городах было ожидаемым и привычным для граждан СССР —

☐ **# 8**

+

несколько ответов

6 8

корректировать

Перед вами ряд изображений. Укажите номера двух «лишних» изображений, связанных с историей зарубежных стран (2 правильных ответа, 3 балла за каждый правильный ответ, максимальный балл – 6). Засчитывается каждый верный ответ при отсутствии лишних ответов. Если участник отметил три варианта ответа, то за каждый верный ответ начисляется 3 балла, за каждый неверный – 0 баллов, НО вычитается 3 балла за лишний вариант ответа. Во всех остальных случаях ставится 0 баллов.



1)

2)



3)



4)



5)



A 1 1

B 2 2

C 3 — 3 ✓

D 4 — 4 ✓

E 5 — 5 —

☐ **# 9**

+

несколько ответов

9 9

корректировать

Рассмотрите карту и выберите из списка все верные суждения, относящиеся к событиям, изображённым на данной карте, и укажите их. (3 правильных ответа, 3 балла за каждый правильный ответ, максимальный балл – 9). Засчитывается каждый верный ответ при отсутствии лишних ответов. Если участник отметил четыре варианта ответа, то за каждый верный ответ начисляется 3 балла, за каждый неверный – 0 баллов, НО вычитается 3 балла за лишний вариант ответа. Во всех остальных случаях ставится 0 баллов.

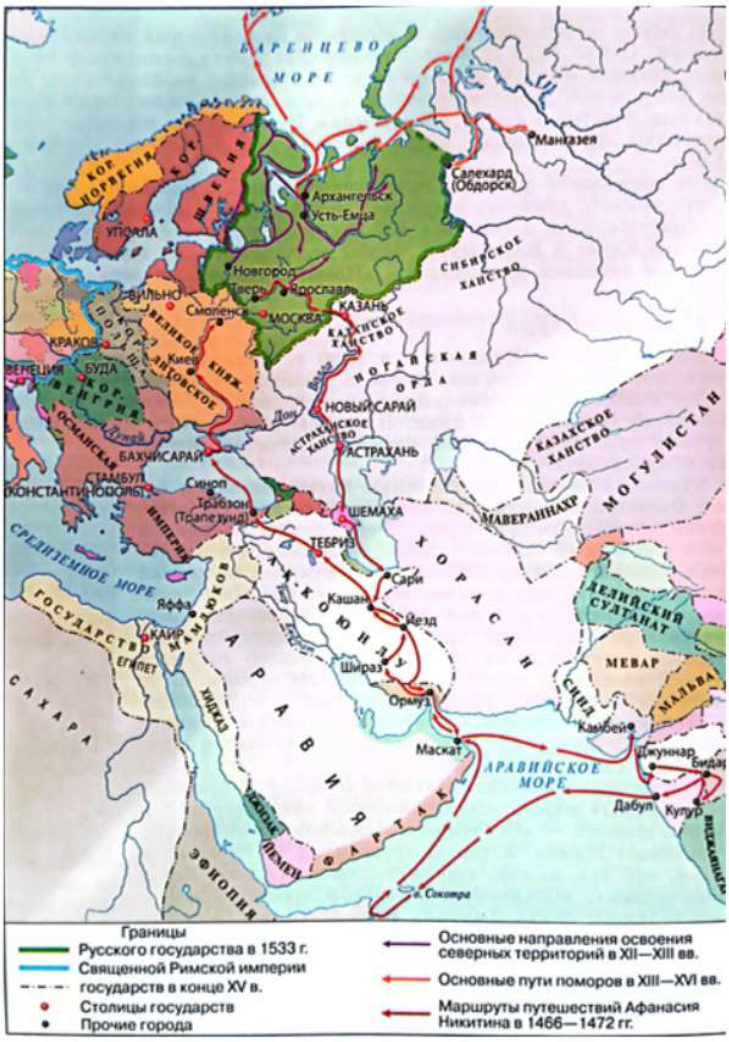
БАРЕНЦЕВО МОРЕ
Мангазея
Салехард (Обдорск)
Архангельск
Усть-Емца
КОР. НОРВЕГИЯ
КОР. ШВЕЦИЯ
УПСАЛА
Новгород
Тверь
Ярославль
СИБИРСКОЕ ХАНСТВО
ВИЛЬНО
Смоленск
МОСКВА
КАЗАНЬ
КАЗАНСКОЕ ХАНСТВО
ВЕЛИКОЕ КНЯЖ. ЛИТОВСКОЕ
КРАКОВ
Киев
БУДА
ВЕНЕЦИЯ
КОР. ВЕНГРИЯ
НОГАЙСКАЯ ОРДА
Волга
Дон
НОВЫЙ САРАЙ
АСТРАХАНСКОЕ ХАНСТВО
АСТРАХАНЬ
КАЗАХСКОЕ ХАНСТВО
МОГУЛИСТАН
БАХЧИСАРАЙ
ОСМАНСКАЯ ИМПЕРИЯ
СТАМБУЛ (КОНСТАНТИНОПОЛЬ)
Синоп
Трабзон (Трапезунд)
ШЕМАХА
МАВЕРАННАХР
ТЕБРИЗ
ХОРАСАН
Сари
Кашан
Иезд
АК-КОЮНЛУ
Шираз
Ормуз
СРЕДИЗЕМНОЕ МОРЕ
Яффа
КАИР
ЕГИПЕТ
ГОСУДАРСТВО МАМЛЮКОВ
ХИДЖАЗ
АРАВИЯ
САХАРА
ДЕЛИЙСКИЙ СУЛТАНАТ
МЕВАР
МАЛЬВА
СИНД
Камбей
Маскат
АРАВИЙСКОЕ МОРЕ
Джуннар
Бидар
Дабул
Кулур
ЙЕМЕН
ФАРТАК
ЭФИОПИЯ
о. Сокотра
Границы
Русского государства в 1533 г.
Священной Римской империи
государств в конце XV в.
Столицы государств
Прочие города
Основные направления освоения северных территорий в XII—XIII вв.
Основные пути поморов в XIII—XVI вв.
Маршруты путешествий Афанасия Никитина в 1466—1472 гг.

A 1 — Поморы достигли Мангазеи, Салехарда, выходили в Баренцево море ✓

B 2 — путешествие Афанасия Никитина началось в Твери, а завершилось на острове Сокотра —

C 3 — На юго-востоке Московское государство в XV – начале XVI вв. граничило с Казанским ханством ✓

D 4 — земли Ногайской орды входили в состав Казахского ханства —

E 5 Архангельск был построен на пути освоения северных территорий Московского государства ✓

F 6 Константинополь в начале XVI века был столицей Византии —

☐ **# 10**

+

несколько ответов

12 10

корректировать

Прочитайте текст, рассмотрите карту и иллюстрацию, выберите из списка все верные суждения, относящиеся к описываемой исторической ситуации, и отметьте их. (3 правильных ответа, 4 балла за каждый правильный ответ, максимальный балл – 12). Засчитывается каждый верный ответ при отсутствии лишних ответов. Если участник отметил четыре варианта ответа, то за каждый верный ответ начисляется 4 балла, за каждый неверный – 0 баллов, НО вычитается 4 балла за лишний вариант ответа. Во всех остальных случаях ставится 0 баллов.

«В лето 1551 начал государь со своими боярами думать, как завоевать Казань. И призвал казанских князей, которые из Казани приехали к нему служить…И замыслил государь город построить на Свияжском устье, на Круглой горе промеж Щучья озера и Свияги-реки. Ибо сам государь, от Казани едучи, видел, что то место стройно и пригодно для города. И решил посылать рать свою многую в судах и на конях, и запасы свои царские великие, дабы к его приходу готов был тот запас.

И призывает государь к себе дьяка своего Ивана Григорьева сына Выродкова и посылает его, а с ним детей боярских на Волгу во Углицкий уезд церкви и город рубить и в судах с воеводами на Низ, на Свияжское устье, везти. Так и было…

Месяца мая 24-го, в неделю всех святых, Царь Шигалей и воеводы пришли на Свиягу и начали лес сечь, чтобы город ставить. И очистив гору, пели молебны, и воду святили, и со крестами по стенному месту обошли, и заложили город и церкви во имя Рождества Пречистыя и чудотворца Сергия…».

(О постройке города Свияжска (Из Летописца начала царства) // Русские летописи XV – XVII вв. М., 2000. С.126-1128.)

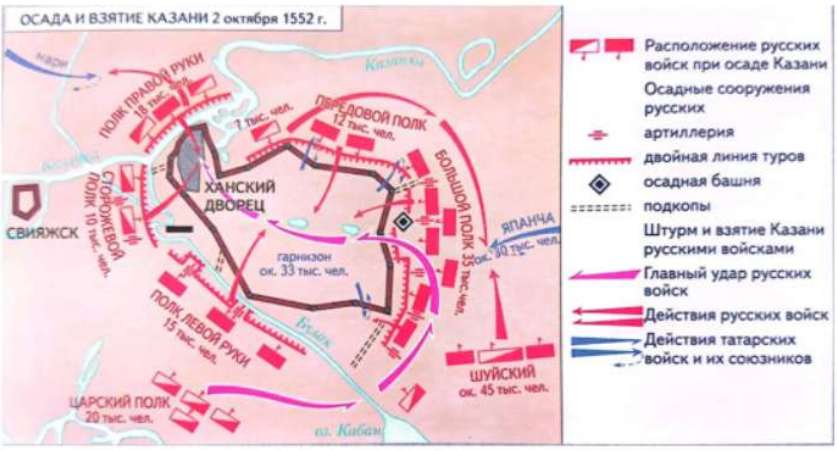
ОСАДА И ВЗЯТИЕ КАЗАНИ 2 октября 1552 г.
Казанка
ПОЛК ПРАВОЙ РУКИ 18 тыс. чел.
7 тыс. чел.
ПЕРЕДОВОЙ ПОЛК 12 тыс. чел.
ХАНСКИЙ ДВОРЕЦ
СВИЯЖСК
СТОРОЖЕВОЙ ПОЛК 10 тыс. чел.
БОЛЬШОЙ ПОЛК 35 тыс. чел.
ЯПАНЧА ок. 30 тыс. чел.
гарнизон ок. 33 тыс. чел.
ПОЛК ЛЕВОЙ РУКИ 15 тыс. чел.
Булак
ШУЙСКИЙ ок. 45 тыс. чел.
ЦАРСКИЙ ПОЛК 20 тыс. чел.
оз. Кабан
Расположение русских войск при осаде Казани
Осадные сооружения русских
артиллерия
двойная линия туров
осадная башня
подкопы
Штурм и взятие Казани русскими войсками
Главный удар русских войск
Действия русских войск
Действия татарских войск и их союзников

Карта-схема «Осада и взятие Казани»



- Г.И. Угрюмов. «Взятие Казани Иваном Грозным 2 октября 1552 года», 1797-1799 гг.

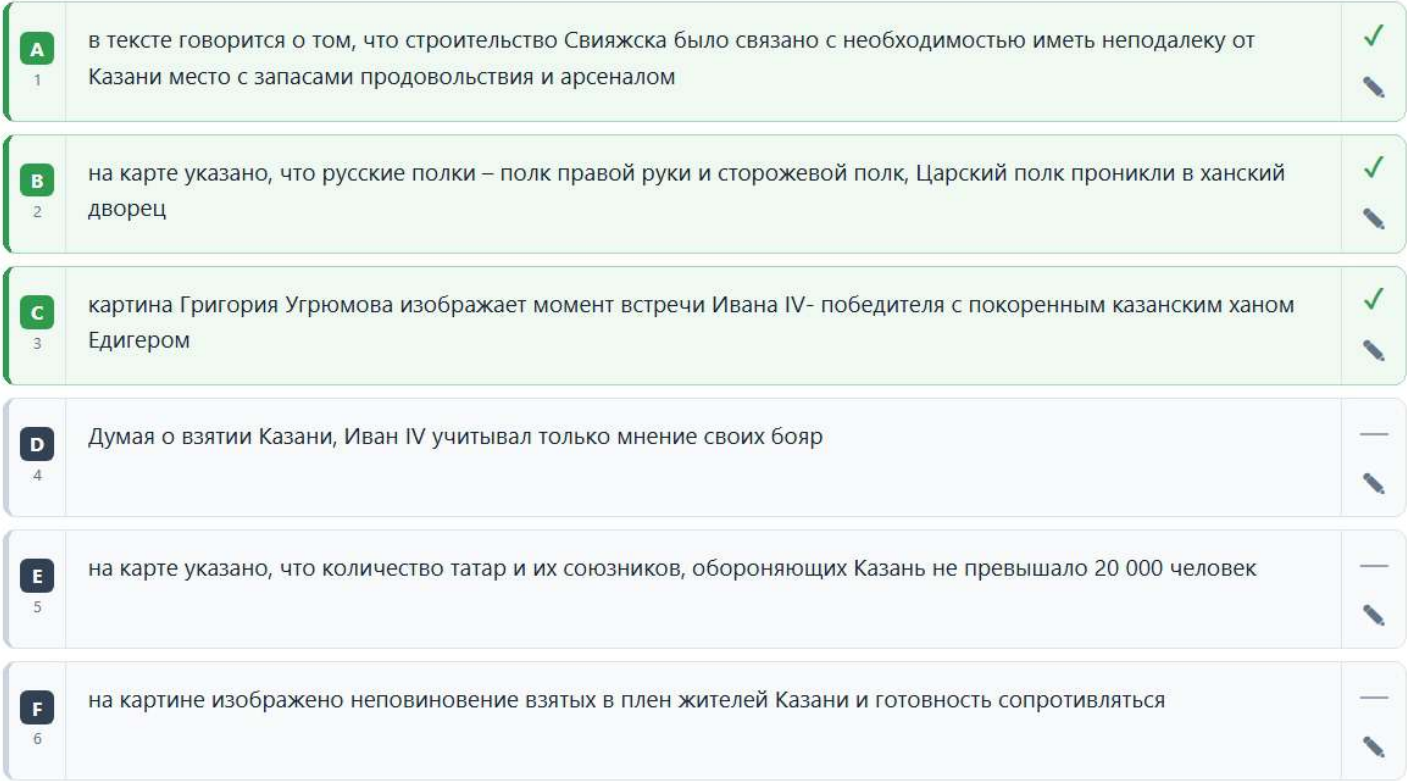

A 1 в тексте говорится о том, что строительство Свияжска было связано с необходимостью иметь неподалеку от Казани место с запасами продовольствия и арсеналом ✓

B 2 на карте указано, что русские полки – полк правой руки и сторожевой полк, Царский полк проникли в ханский дворец ✓

C 3 картина Григория Угрюмова изображает момент встречи Ивана IV- победителя с покоренным казанским ханом Едигером ✓

D 4 Думая о взятии Казани, Иван IV учитывал только мнение своих бояр —

E 5 на карте указано, что количество татар и их союзников, обороняющих Казань не превышало 20 000 человек —

F 6 на картине изображено неповиновение взятых в плен жителей Казани и готовность сопротивляться —